Vierecke ..... :

Übung: **Flächeninhalt** von **Vierecken**

Berechne den **Flächeninhalt**! **Ergänze** vorher notwendige **Linien**! **Beschrifte** alle für die Berechnung **benötigten Stücke**!
Rechne jeweils mit **ausführlichem** Rechenweg (geg., ges., Formel, einsetzen, Ergebnis)! **TR** ist erlaubt!

geg.: =

ges.: *in*

=

Lös.: =

=

=

(18,91 cm²)

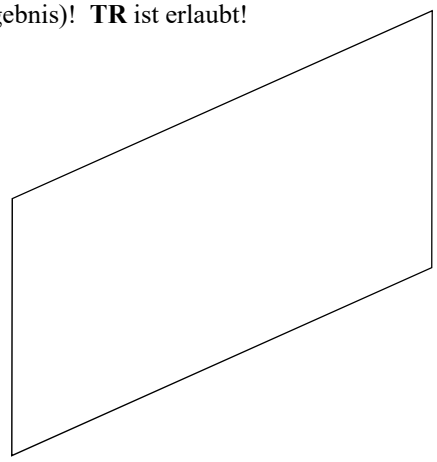

=

(19,11 cm²)

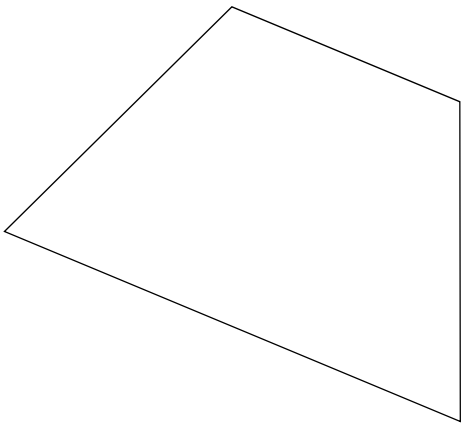

(12,71 cm²)

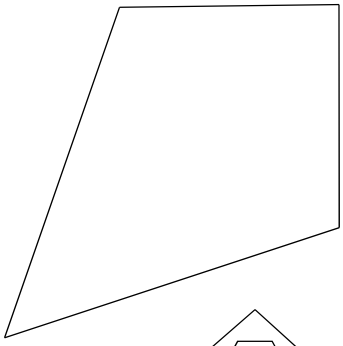

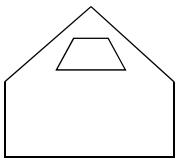

Das große Fenster im Dachgiebel eines Hauses wurde durch einen Sturm zerstört und soll ersetzt werden.
Es ist **3,60 m** bzw. **2,40 m** breit und **90 cm** hoch. Wie **teuer** wird das Fenster, wenn 1 m² Glas **80 €** kostet?
Fertige eine **beschriftete Skizze** an und berechne mit **ausführlichem** Rechenweg! Achte auf **Maßeinheiten**!

Skizze:

(216 €)

Copyright © Frank Haberecht